Reagrupar Bloques Base Diez (F)

Nombre: _____ Fecha: _____

¿Qué número se muestra en cada grupo de bloques base diez?

1.

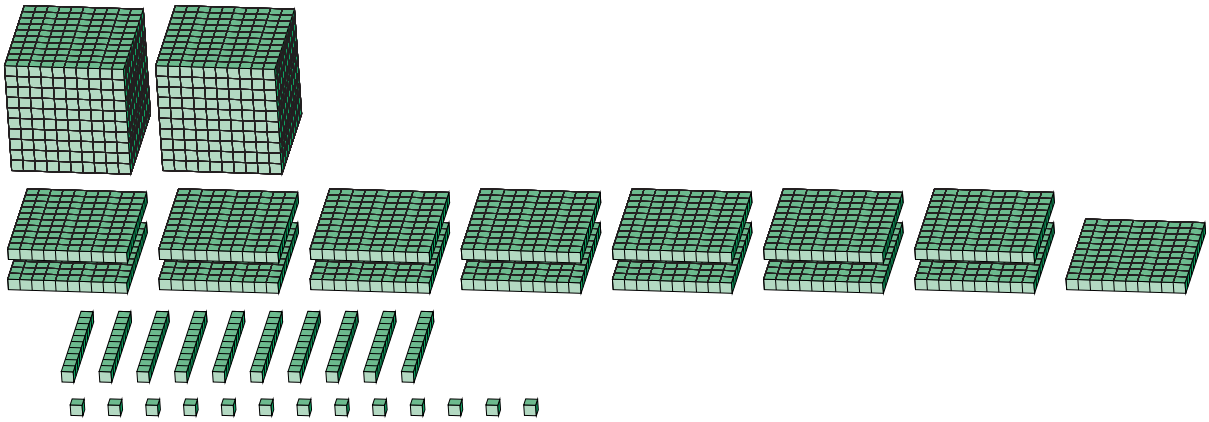

Forma Expandida

Forma Estándar

2.

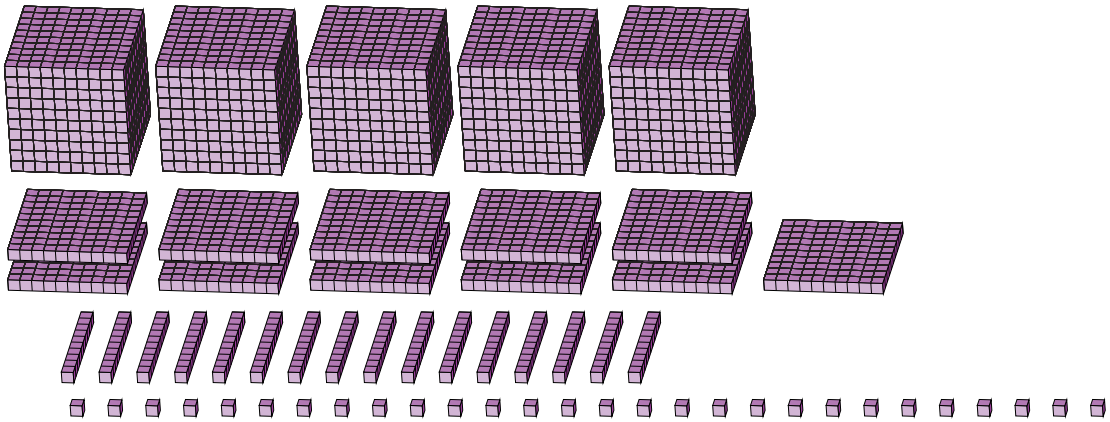

Forma Expandida

Forma Estándar

Reagrupar Bloques Base Diez (F) Respuestas

Nombre: _____ Fecha: _____

¿Qué número se muestra en cada grupo de bloques base diez?

1.

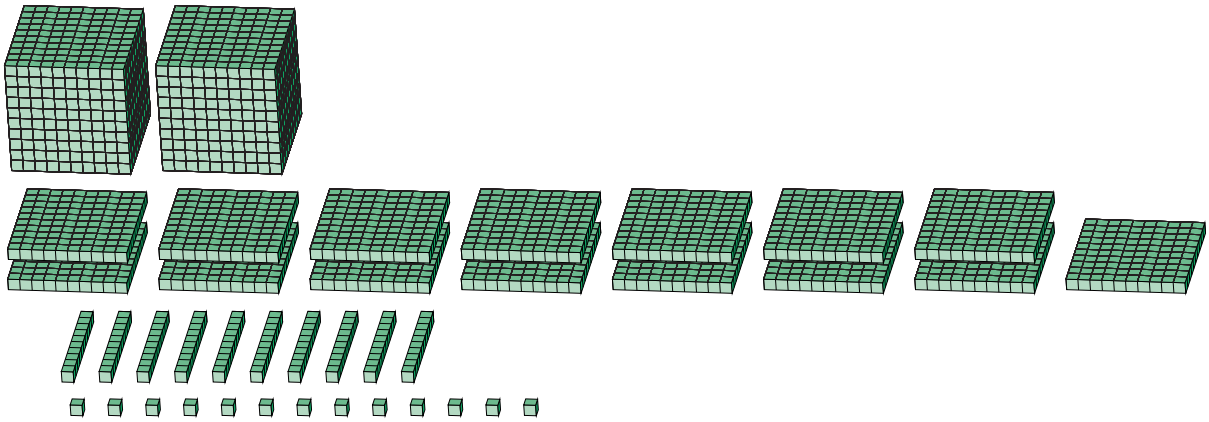

Forma Expandida

$(2 \times 1000) + (15 \times 100) + (10 \times 10) + (13 \times 1)$

$(3 \times 1000) + (6 \times 100) + (1 \times 10) + (3 \times 1)$

$3000 + 600 + 10 + 3$

Forma Estándar

3613

2.

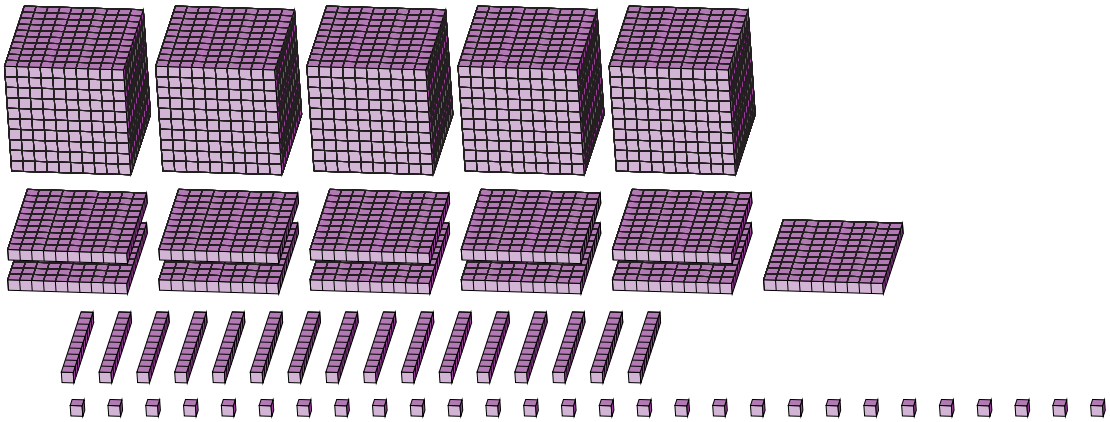

Forma Expandida

$(5 \times 1000) + (11 \times 100) + (16 \times 10) + (28 \times 1)$

$(6 \times 1000) + (2 \times 100) + (8 \times 10) + (8 \times 1)$

$6000 + 200 + 80 + 8$

Forma Estándar

6288