Contar Monedas de USA (A)

¿Cuál es el valor de cada conjunto de monedas?

1.

_____

2.

_____

3.

_____

Imágenes de monedas de Estados Unidos de América tomadas del United States Mint.

Contar Monedas de USA (A) Respuestas

¿Cuál es el valor de cada conjunto de monedas?

1.

$1.46

2.

$1.15

3.

$3.70

Imágenes de monedas de Estados Unidos de América tomadas del United States Mint.

Contar Monedas de USA (B)

¿Cuál es el valor de cada conjunto de monedas?

1.



_____

2.



_____

3.



_____

Imágenes de monedas de Estados Unidos de América tomadas del United States Mint.

Contar Monedas de USA (B) Respuestas

¿Cuál es el valor de cada conjunto de monedas?

1.



$2.68

2.



$1.25

3.

$3.25

Imágenes de monedas de Estados Unidos de América tomadas del United States Mint.

Contar Monedas de USA (C)

¿Cuál es el valor de cada conjunto de monedas?

1.

_____

2.

_____

3.

_____

Imágenes de monedas de Estados Unidos de América tomadas del United States Mint.

Contar Monedas de USA (C) Respuestas

¿Cuál es el valor de cada conjunto de monedas?

1.

$5.13

2.

$2.07

3.

$3.13

Imágenes de monedas de Estados Unidos de América tomadas del United States Mint.

Contar Monedas de USA (D)

¿Cuál es el valor de cada conjunto de monedas?

1.

_____

2.



_____

3.

_____

Imágenes de monedas de Estados Unidos de América tomadas del United States Mint.

Contar Monedas de USA (D) Respuestas

¿Cuál es el valor de cada conjunto de monedas?

1.

$3.39

2.



$1.87

3.

$1.23

Imágenes de monedas de Estados Unidos de América tomadas del United States Mint.

Contar Monedas de USA (E)

¿Cuál es el valor de cada conjunto de monedas?

1.

_____

2.

_____

3.



_____

Imágenes de monedas de Estados Unidos de América tomadas del United States Mint.

Contar Monedas de USA (E) Respuestas

¿Cuál es el valor de cada conjunto de monedas?

1.



$4.90

2.

$4.40

3.

$3.32

Imágenes de monedas de Estados Unidos de América tomadas del United States Mint.

Contar Monedas de USA (F)

¿Cuál es el valor de cada conjunto de monedas?

1.

_____

2.

_____

3.



_____

Imágenes de monedas de Estados Unidos de América tomadas del United States Mint.

Contar Monedas de USA (F) Respuestas

¿Cuál es el valor de cada conjunto de monedas?

1.

$5.11

2.

$4.71

3.



$2.91

Imágenes de monedas de Estados Unidos de América tomadas del United States Mint.

Contar Monedas de USA (G)

¿Cuál es el valor de cada conjunto de monedas?

1.

_____

2.



_____

3.

_____

Imágenes de monedas de Estados Unidos de América tomadas del United States Mint.

Contar Monedas de USA (G) Respuestas

¿Cuál es el valor de cada conjunto de monedas?

1.



$3.62

2.



$2.90

3.



$4.59

Imágenes de monedas de Estados Unidos de América tomadas del United States Mint.

Contar Monedas de USA (H)

¿Cuál es el valor de cada conjunto de monedas?

1.

_____

2.



_____

3.

_____

Imágenes de monedas de Estados Unidos de América tomadas del United States Mint.

Contar Monedas de USA (H) Respuestas

¿Cuál es el valor de cada conjunto de monedas?

1.

$2.59

2.



$2.55

3.

$5.40

Imágenes de monedas de Estados Unidos de América tomadas del United States Mint.

Contar Monedas de USA (I)

¿Cuál es el valor de cada conjunto de monedas?

1.

_____

2.

_____

3.



_____

Imágenes de monedas de Estados Unidos de América tomadas del United States Mint.

Contar Monedas de USA (I) Respuestas

¿Cuál es el valor de cada conjunto de monedas?

1.



$2.13

2.

$1.37

3.



$2.51

Imágenes de monedas de Estados Unidos de América tomadas del United States Mint.

Contar Monedas de USA (J)

¿Cuál es el valor de cada conjunto de monedas?

1.

_____

2.



_____

3.

_____

Imágenes de monedas de Estados Unidos de América tomadas del United States Mint.

Contar Monedas de USA (J) Respuestas

¿Cuál es el valor de cada conjunto de monedas?

1.

$5.40

2.



$2.61

3.



$3.51

Imágenes de monedas de Estados Unidos de América tomadas del United States Mint.