CONTAR EN HALLOWEEN (G)

Nombre: _____ Fecha: _____ Puntuación: ____ /4

¡Si os atrevéis, contad la cantidad de objetos en cada grupo!

1. Hay ☐ murciélagos.



2. Hay ☐ fantasmas.



3. Hay ☐ brujas.

4. Hay ☐ cabezas de calabaza.

CONTAR EN HALLOWEEN (G) RESPUESTAS

Nombre: _____ Fecha: _____ Puntuación: ____ /4

¡Si os atrevéis, contad la cantidad de objetos en cada grupo!

1. Hay 4 murciélagos.



2. Hay 4 fantasmas.



3. Hay 1 brujas.

4. Hay 6 cabezas de calabaza.