# CONTAR EN HALLOWEEN (I)

Nombre: _____ Fecha: _____ Puntuación: ____ /4

¡Si os atrevéis, contad la cantidad de objetos en cada grupo!

1. Hay ____ brujas.



2. Hay ____ cabezas de calabaza.

3. Hay ____ murciélagos.

4. Hay ____ fantasmas.



# CONTAR EN HALLOWEEN (I) RESPUESTAS

Nombre: _____ Fecha: _____ Puntuación: ____ /4

¡Si os atrevéis, contad la cantidad de objetos en cada grupo!

1. Hay 12 brujas.



2. Hay 11 cabezas de calabaza.

3. Hay 16 murciélagos.

4. Hay 16 fantasmas.