CONTAR EN HALLOWEEN (H)

Nombre: _____ Fecha: _____ Puntuación: ____ /4

¡Si os atrevéis, contad la cantidad de objetos en cada grupo!

1. Hay ☐ murciélagos.



2. Hay ☐ cabezas de calabaza.

3. Hay ☐ fantasmas.



4. Hay ☐ brujas.



CONTAR EN HALLOWEEN (H) RESPUESTAS

Nombre: _____ Fecha: _____ Puntuación: ____ /4

¡Si os atrevéis, contad la cantidad de objetos en cada grupo!

1. Hay 15 murciélagos.



2. Hay 9 cabezas de calabaza.

3. Hay 6 fantasmas.



4. Hay 11 brujas.