Contar Patrones Dispersos de Halloween (A)

Nombre: _____ Fecha: _____

Cuente cada grupo de figuras de Halloween.



	murciélagos		calabazas		árboles
	gatos		esqueletos		vampiros
	fantasmas		arañas		telarañas
	garras		lápidas		brujas

Contar Patrones Dispersos de Halloween (A) Respuestas

Nombre: _____ Fecha: _____

Cuente cada grupo de figuras de Halloween.



19	murciélagos	12	calabazas	16	árboles
10	gatos	14	esqueletos	12	vampiros
15	fantasmas	9	arañas	15	telarañas
4	garras	13	lápidas	8	brujas

Contar Patrones Dispersos de Halloween (B)

Nombre: _____ Fecha: _____

Cuente cada grupo de figuras de Halloween.



	murciélagos		calabazas		árboles
	gatos		esqueletos		vampiros
	fantasmas		arañas		telarañas
	garras		lápidas		brujas

Contar Patrones Dispersos de Halloween (B) Respuestas

Nombre: _____ Fecha: _____

Cuente cada grupo de figuras de Halloween.



16	murciélagos	13	calabazas	7	árboles
14	gatos	12	esqueletos	12	vampiros
11	fantasmas	14	arañas	15	telarañas
14	garras	13	lápidas	13	brujas

Contar Patrones Dispersos de Halloween (C)

Nombre: _____ Fecha: _____

Cuente cada grupo de figuras de Halloween.



	murciélagos		calabazas		árboles
	gatos		esqueletos		vampiros
	fantasmas		arañas		telarañas
	garras		lápidas		brujas

Contar Patrones Dispersos de Halloween (C) Respuestas

Nombre: _____ Fecha: _____

Cuente cada grupo de figuras de Halloween.



5	murciélagos	20	calabazas	9	árboles
14	gatos	5	esqueletos	13	vampiros
14	fantasmas	15	arañas	9	telarañas
9	garras	17	lápidas	13	brujas

Contar Patrones Dispersos de Halloween (D)

Nombre: _____ Fecha: _____

Cuente cada grupo de figuras de Halloween.



	murciélagos		calabazas		árboles
	gatos		esqueletos		vampiros
	fantasmas		arañas		telarañas
	garras		lápidas		brujas

Contar Patrones Dispersos de Halloween (D) Respuestas

Nombre: _____ Fecha: _____

Cuente cada grupo de figuras de Halloween.



9	murciélagos	12	calabazas	11	árboles
19	gatos	8	esqueletos	9	vampiros
11	fantasmas	10	arañas	17	telarañas
13	garras	13	lápidas	9	brujas

Contar Patrones Dispersos de Halloween (B)

Nombre: _____ Fecha: _____

Cuente cada grupo de figuras de Halloween.



	murciélagos		calabazas		árboles
	gatos		esqueletos		vampiros
	fantasmas		arañas		telarañas
	garras		lápidas		brujas

Contar Patrones Dispersos de Halloween (B) Respuestas

Nombre: _____ Fecha: _____

Cuente cada grupo de figuras de Halloween.



12	murciélagos	11	calabazas	15	árboles
11	gatos	11	esqueletos	11	vampiros
14	fantasmas	12	arañas	12	telarañas
7	garras	25	lápidas	9	brujas

Contar Patrones Dispersos de Halloween (F)

Nombre: _____ Fecha: _____

Cuente cada grupo de figuras de Halloween.



	murciélagos		calabazas		árboles
	gatos		esqueletos		vampiros
	fantasmas		arañas		telarañas
	garras		lápidas		brujas

Contar Patrones Dispersos de Halloween (F) Respuestas

Nombre: _____ Fecha: _____

Cuente cada grupo de figuras de Halloween.



15	murciélagos	15	calabazas	10	árboles
14	gatos	11	esqueletos	13	vampiros
13	fantasmas	15	arañas	7	telarañas
14	garras	16	lápidas	8	brujas

Contar Patrones Dispersos de Halloween (G)

Nombre: _____ Fecha: _____

Cuente cada grupo de figuras de Halloween.



	murciélagos		calabazas		árboles
	gatos		esqueletos		vampiros
	fantasmas		arañas		telarañas
	garras		lápidas		brujas

Contar Patrones Dispersos de Halloween (G) Respuestas

Nombre: _____ Fecha: _____

Cuente cada grupo de figuras de Halloween.



15	murciélagos	14	calabazas	17	árboles
14	gatos	11	esqueletos	15	vampiros
12	fantasmas	12	arañas	7	telarañas
11	garras	11	lápidas	9	brujas

Contar Patrones Dispersos de Halloween (H)

Nombre: _____ Fecha: _____

Cuente cada grupo de figuras de Halloween.



	murciélagos		calabazas		árboles
	gatos		esqueletos		vampiros
	fantasmas		arañas		telarañas
	garras		lápidas		brujas

Contar Patrones Dispersos de Halloween (H) Respuestas

Nombre: _____ Fecha: _____

Cuente cada grupo de figuras de Halloween.



12	murciélagos	19	calabazas	15	árboles
15	gatos	10	esqueletos	11	vampiros
10	fantasmas	10	arañas	16	telarañas
13	garras	11	lápidas	10	brujas

Contar Patrones Dispersos de Halloween (I)

Nombre: _____ Fecha: _____

Cuente cada grupo de figuras de Halloween.



	murciélagos		calabazas		árboles
	gatos		esqueletos		vampiros
	fantasmas		arañas		telarañas
	garras		lápidas		brujas

Contar Patrones Dispersos de Halloween (I) Respuestas

Nombre: _____ Fecha: _____

Cuente cada grupo de figuras de Halloween.



18	murciélagos	12	calabazas	15	árboles
8	gatos	10	esqueletos	18	vampiros
8	fantasmas	15	arañas	14	telarañas
11	garras	12	lápidas	18	brujas

Contar Patrones Dispersos de Halloween (J)

Nombre: _____ Fecha: _____

Cuente cada grupo de figuras de Halloween.



	murciélagos		calabazas		árboles
	gatos		esqueletos		vampiros
	fantasmas		arañas		telarañas
	garras		lápidas		brujas

Contar Patrones Dispersos de Halloween (J) Respuestas

Nombre: _____ Fecha: _____

Cuente cada grupo de figuras de Halloween.



11	murciélagos	12	calabazas	13	árboles
13	gatos	8	esqueletos	9	vampiros
12	fantasmas	12	arañas	15	telarañas
11	garras	16	lápidas	5	brujas