CONTAR EN HALLOWEEN (F)

Nombre: _____ Fecha: _____ Puntuación: ____ /4

¡Si os atrevéis, contad la cantidad de objetos en cada grupo!

1. Hay ☐ murciélagos.



2. Hay ☐ brujas.

3. Hay ☐ cabezas de calabaza.

4. Hay ☐ fantasmas.



CONTAR EN HALLOWEEN (F) RESPUESTAS

Nombre: _____ Fecha: _____ Puntuación: ____ /4

¡Si os atrevéis, contad la cantidad de objetos en cada grupo!

1. Hay 14 murciélagos.



2. Hay 15 brujas.

3. Hay 24 cabezas de calabaza.

4. Hay 30 fantasmas.