CONTAR HUEVOS DE PASCUAS (D)

Cuente la cantidad en cada conjunto de huevos de Pascuas.

1. Hay _____ huevos de Pascuas en el conjunto siguiente.



2. Hay _____ huevos de Pascuas en el conjunto siguiente.



3. Hay _____ huevos de Pascuas en el conjunto siguiente.

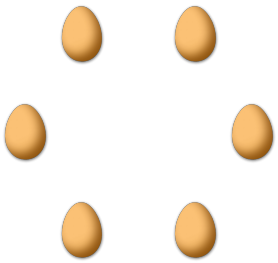

4. Hay _____ huevos de Pascuas en el conjunto siguiente.



5. Hay _____ huevos de Pascuas en el conjunto siguiente.

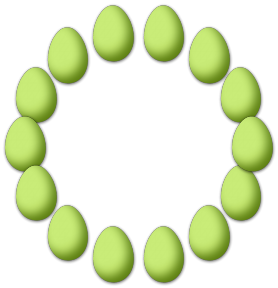

6. Hay _____ huevos de Pascuas en el conjunto siguiente.

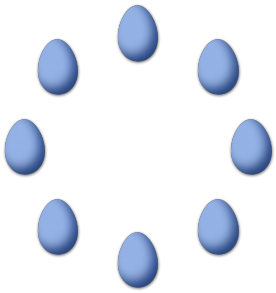

CONTAR HUEVOS DE PASCUAS (D) RESPUESTAS

Cuente la cantidad en cada conjunto de huevos de Pascuas.

1. Hay __10__ huevos de Pascuas en el conjunto siguiente.



2. Hay __5__ huevos de Pascuas en el conjunto siguiente.



3. Hay __6__ huevos de Pascuas en el conjunto siguiente.

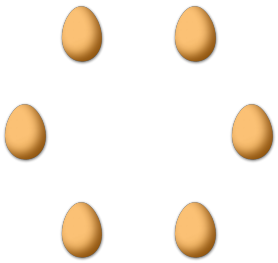

4. Hay __9__ huevos de Pascuas en el conjunto siguiente.



5. Hay __14__ huevos de Pascuas en el conjunto siguiente.

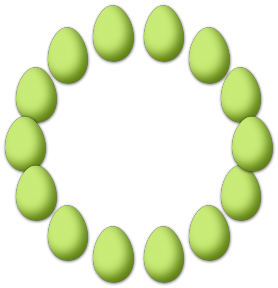
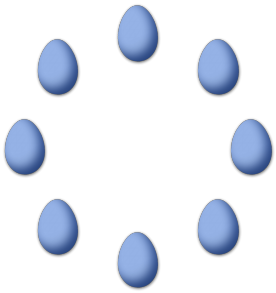
6. Hay __8__ huevos de Pascuas en el conjunto siguiente.