CONTAR HUEVOS DE PASCUAS (H)

Cuente la cantidad en cada conjunto de huevos de Pascuas.

1. Hay _____ huevos de Pascuas en el conjunto siguiente.



2. Hay _____ huevos de Pascuas en el conjunto siguiente.

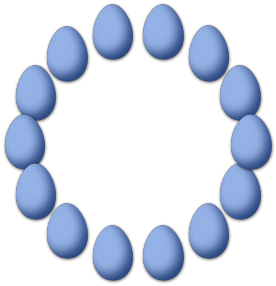

3. Hay _____ huevos de Pascuas en el conjunto siguiente.



4. Hay _____ huevos de Pascuas en el conjunto siguiente.



5. Hay _____ huevos de Pascuas en el conjunto siguiente.

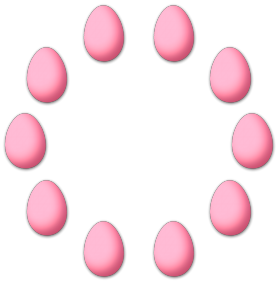

6. Hay _____ huevos de Pascuas en el conjunto siguiente.



Contar Huevos de Pascuas (H) Respuestas

Cuente la cantidad en cada conjunto de huevos de Pascuas.

1. Hay __8__ huevos de Pascuas en el conjunto siguiente.



2. Hay __14__ huevos de Pascuas en el conjunto siguiente.

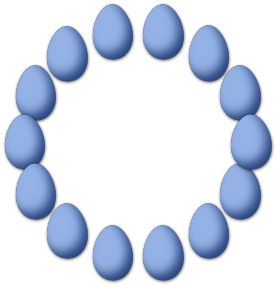

3. Hay __12__ huevos de Pascuas en el conjunto siguiente.



4. Hay __11__ huevos de Pascuas en el conjunto siguiente.



5. Hay __10__ huevos de Pascuas en el conjunto siguiente.

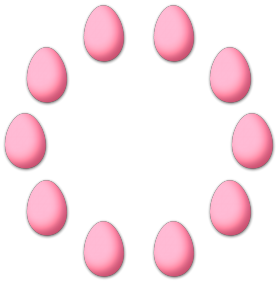

6. Hay __9__ huevos de Pascuas en el conjunto siguiente.