CONTAR HUEVOS DE PASCUAS (C)

Cuente la cantidad en cada conjunto de huevos de Pascuas.

1. Hay _____ huevos de Pascuas en el conjunto siguiente.

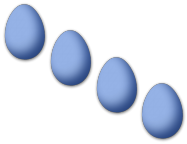

2. Hay _____ huevos de Pascuas en el conjunto siguiente.



3. Hay _____ huevos de Pascuas en el conjunto siguiente.



4. Hay _____ huevos de Pascuas en el conjunto siguiente.

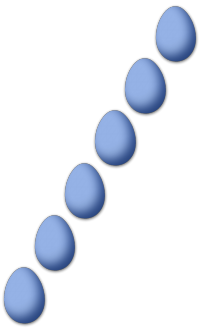

5. Hay _____ huevos de Pascuas en el conjunto siguiente.

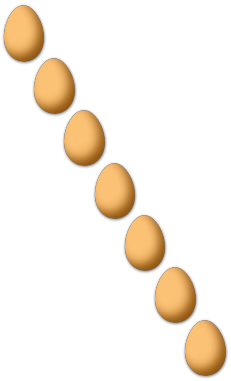

6. Hay _____ huevos de Pascuas en el conjunto siguiente.

Contar Huevos de Pascuas (C) Respuestas

Cuente la cantidad en cada conjunto de huevos de Pascuas.

1. Hay __4__ huevos de Pascuas en el conjunto siguiente.

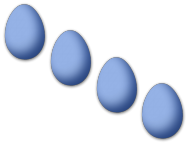

2. Hay __5__ huevos de Pascuas en el conjunto siguiente.



3. Hay __2__ huevos de Pascuas en el conjunto siguiente.



4. Hay __6__ huevos de Pascuas en el conjunto siguiente.

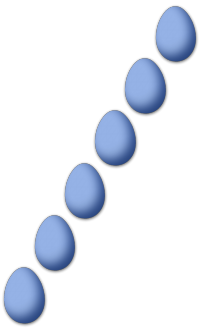

5. Hay __7__ huevos de Pascuas en el conjunto siguiente.

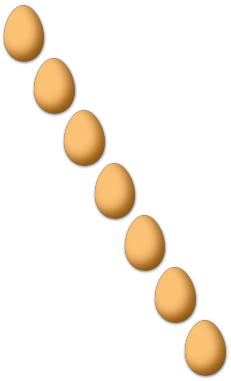

6. Hay __3__ huevos de Pascuas en el conjunto siguiente.