CONTAR HUEVOS DE PASCUAS (D)

Cuente la cantidad en cada conjunto de huevos de Pascuas.

1. Hay _____ huevos de Pascuas en el conjunto siguiente.

2. Hay _____ huevos de Pascuas en el conjunto siguiente.

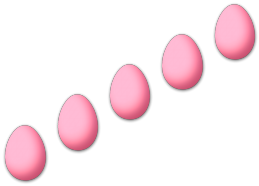

3. Hay _____ huevos de Pascuas en el conjunto siguiente.

4. Hay _____ huevos de Pascuas en el conjunto siguiente.



5. Hay _____ huevos de Pascuas en el conjunto siguiente.

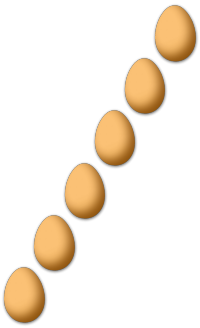

6. Hay _____ huevos de Pascuas en el conjunto siguiente.

CONTAR HUEVOS DE PASCUAS (D) RESPUESTAS

Cuente la cantidad en cada conjunto de huevos de Pascuas.

1. Hay __2__ huevos de Pascuas en el conjunto siguiente.

2. Hay __5__ huevos de Pascuas en el conjunto siguiente.

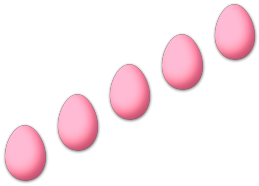

3. Hay __3__ huevos de Pascuas en el conjunto siguiente.

4. Hay __4__ huevos de Pascuas en el conjunto siguiente.



5. Hay __6__ huevos de Pascuas en el conjunto siguiente.

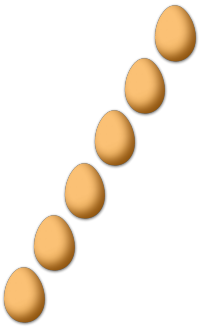

6. Hay __7__ huevos de Pascuas en el conjunto siguiente.