CONTAR HUEVOS DE PASCUAS (B)

Cuente la cantidad en cada conjunto de huevos de Pascuas.

1. Hay _____ huevos de Pascuas en el conjunto siguiente.

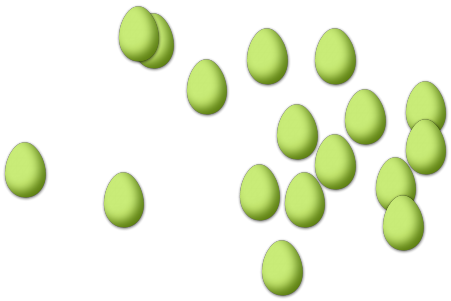

2. Hay _____ huevos de Pascuas en el conjunto siguiente.



3. Hay _____ huevos de Pascuas en el conjunto siguiente.

4. Hay _____ huevos de Pascuas en el conjunto siguiente.



5. Hay _____ huevos de Pascuas en el conjunto siguiente.



6. Hay _____ huevos de Pascuas en el conjunto siguiente.

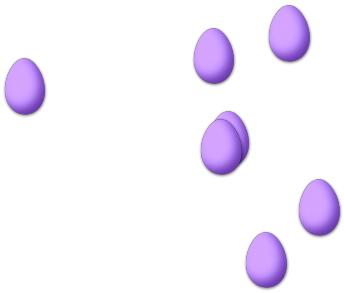

Contar Huevos de Pascuas (B) Respuestas

Cuente la cantidad en cada conjunto de huevos de Pascuas.

1. Hay __17__ huevos de Pascuas en el conjunto siguiente.

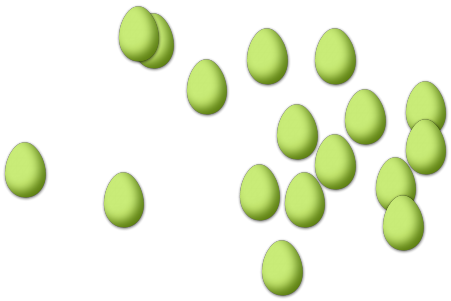

2. Hay __12__ huevos de Pascuas en el conjunto siguiente.



3. Hay __7__ huevos de Pascuas en el conjunto siguiente.

4. Hay __9__ huevos de Pascuas en el conjunto siguiente.



5. Hay __4__ huevos de Pascuas en el conjunto siguiente.


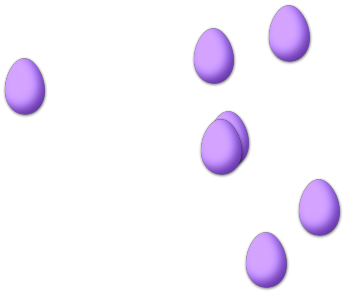
6. Hay __7__ huevos de Pascuas en el conjunto siguiente.