Secuencias en Rectas Numéricas (B)

Rellene los espacios en cada recta numérica.

1.

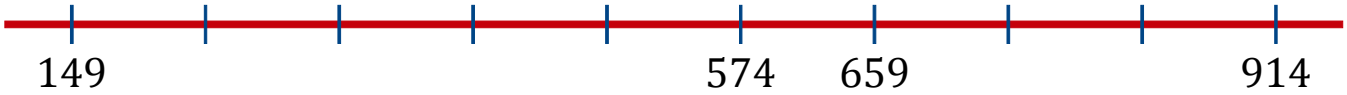

Diferencia común: _____

2.

Diferencia común: _____

3.



Diferencia común: _____

4.

Diferencia común: _____

5.

Diferencia común: _____

6.

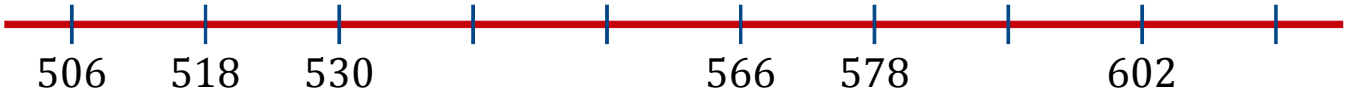

Diferencia común: _____

7.

Diferencia común: _____

8.

Diferencia común: _____

Secuencias en Rectas Numéricas (B) Respuestas

Rellene los espacios en cada recta numérica.

1.

149	234	319	404	489	574	659	744	829	914

Diferencia común: 85

2.

121	201	281	361	441	521	601	681	761	841

Diferencia común: 80

3.

449	494	539	584	629	674	719	764	809	854

Diferencia común: 45

4.

197	280	363	446	529	612	695	778	861	944

Diferencia común: 83

5.

133	229	325	421	517	613	709	805	901	997

Diferencia común: 96

6.

506	518	530	542	554	566	578	590	602	614

Diferencia común: 12

7.

216	265	314	363	412	461	510	559	608	657

Diferencia común: 49

8.

118	141	164	187	210	233	256	279	302	325

Diferencia común: 23