Contar Sombreros de Leprechaun (i)

Cuente la cantidad en cada conjunto de sombreros de leprechaun.

1. Hay _____ sombreros en el conjunto siguiente.



2. Hay _____ sombreros en el conjunto siguiente.



3. Hay _____ sombreros en el conjunto siguiente.

4. Hay _____ sombreros en el conjunto siguiente.

5. Hay _____ sombreros en el conjunto siguiente.



6. Hay _____ sombreros en el conjunto siguiente.



Contar Sombreros de Leprechaun (I) Respuestas

Cuente la cantidad en cada conjunto de sombreros de leprechaun.

1. Hay __24__ sombreros en el conjunto siguiente.



2. Hay __42__ sombreros en el conjunto siguiente.



3. Hay __21__ sombreros en el conjunto siguiente.

4. Hay __8__ sombreros en el conjunto siguiente.

5. Hay __30__ sombreros en el conjunto siguiente.



6. Hay __35__ sombreros en el conjunto siguiente.