Multiplicacion de Corazones (G)

¿Cuál es el valor de cada corazón?

$1 \times$

$= 31$

$6 \times$

$= 414$

$9 \times$

$= 279$

$5 \times$

$= 240$

$5 \times$

$= 340$

$6 \times$

$= 144$

$7 \times$

$= 168$

$4 \times$

$= 112$

$7 \times$

$= 98$

$1 \times$

$= 75$

$8 \times$

$= 624$

$1 \times$

$= 90$

$3 \times$

$= 273$

$1 \times$

$= 63$

$3 \times$

$= 252$

$4 \times$

$= 56$

$8 \times$

$= 416$

$3 \times$

$= 42$

Ahora calcule las siguientes respuestas:

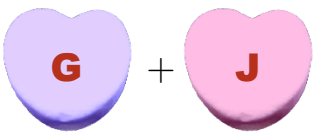

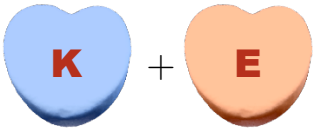

Multiplicacion de Corazones (G) Respuestas

¿Cuál es el valor de cada corazón?

$1 \times$

$= 31$

31

$6 \times$

$= 414$

69

$9 \times$

$= 279$

31

$5 \times$

$= 240$

48

$5 \times$

$= 340$

68

$6 \times$

$= 144$

24

$7 \times$

$= 168$

24

$4 \times$

$= 112$

28

$7 \times$

$= 98$

14

$1 \times$

$= 75$

75

$8 \times$

$= 624$

78

$1 \times$

$= 90$

90

$3 \times$

$= 273$

91

$1 \times$

$= 63$

63

$3 \times$

$= 252$

84

$4 \times$

$= 56$

14

$8 \times$

$= 416$

52

$3 \times$

$= 42$

14

Ahora calcule las siguientes respuestas:

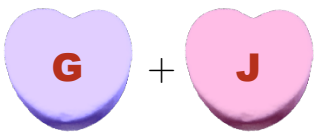

$= 72$

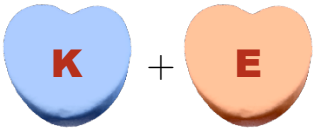

$= 105$