Contar Corazones de Dulce (B)

Nombre: _____ Fecha: _____

Cuente cuántos corazones de dulce hay en cada grupo.

1. Hay _____ corazones verdes en el grupo siguiente.



2. Hay _____ corazones naranja en el grupo siguiente.



3. Hay _____ corazones azules en el grupo siguiente.



4. Hay _____ corazones rosa en el grupo siguiente.



Contar Corazones de Dulce (B) Respuestas

Nombre: _____ Fecha: _____

Cuente cuántos corazones de dulce hay en cada grupo.

1. Hay __5__ corazones verdes en el grupo siguiente.



2. Hay __3__ corazones naranja en el grupo siguiente.



3. Hay __3__ corazones azules en el grupo siguiente.



4. Hay __3__ corazones rosa en el grupo siguiente.