Contar Corazones de Dulce (D)

Nombre: _____ Fecha: _____

Cuente cuántos corazones de dulce hay en cada grupo.

1. Hay _____ corazones azules en el grupo siguiente.

2. Hay _____ corazones naranja en el grupo siguiente.



3. Hay _____ corazones rosa en el grupo siguiente.



4. Hay _____ corazones verdes en el grupo siguiente.



Contar Corazones de Dulce (D) Respuestas

Nombre: _____ Fecha: _____

Cuente cuántos corazones de dulce hay en cada grupo.

1. Hay __6__ corazones azules en el grupo siguiente.

2. Hay __8__ corazones naranja en el grupo siguiente.



3. Hay __9__ corazones rosa en el grupo siguiente.



4. Hay __16__ corazones verdes en el grupo siguiente.